Groep 3

Lesweek 15

Je leert getallen herkennen die deelbaar zijn door 2

Je herhaalt cirkeldiagram

1) Deelbaar door 2 (even en oneven getallen)

Kijk de video

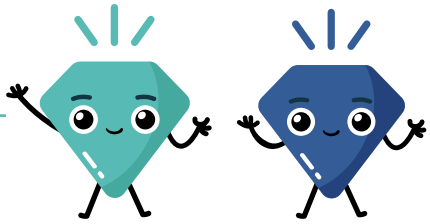

1A. Verdeel eerlijk.

6		3	3
10			
8			
12			
.....	Kies zelf een even getal		

1B. Maak de rij met even getallen af.

2	4	6	8	10	.....	.....	16	.....	.....	.....	.....	.....

1C. Kleur de wolken met getallen die deelbaar zijn door 2.

4 | 10 | 9 | 18 | 191 | 782 | 563

2A. Schrijf op hoeveel er van alles is. En hoeveel speelgoed is er in totaal?



= .....

= .....

= .....

= .....

Speelgoed samen = ...

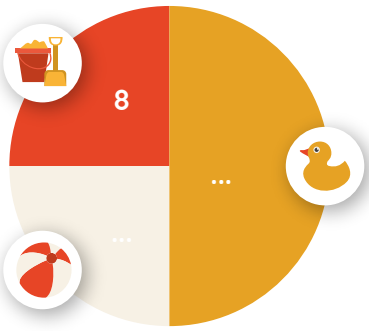

= .....

= .....

= .....

Speelgoed samen = ...

2B. Tel het speelgoed en schrijf in de tabel. Maak daarna het cirkeldiagram af.





.....	.....	.....	.....

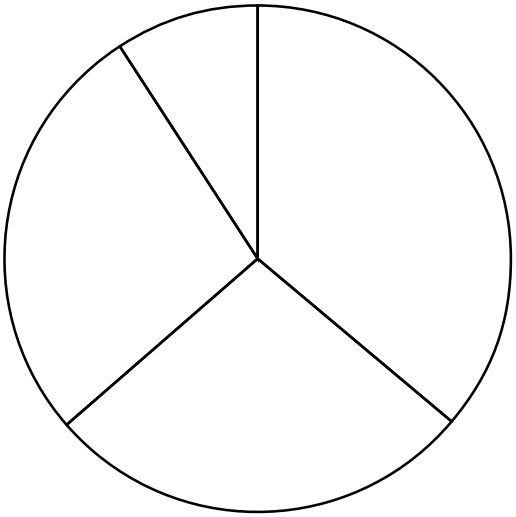

Speelgoed samen = ...



2C. Teken zelf vier soorten speelgoed.
Vul de tabel in. En maak er een cirkeldiagram bij.

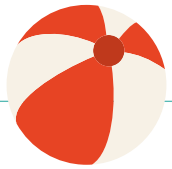

Teken hier speelgoed

	=	.....
	=	.....
	=	.....
	=	.....

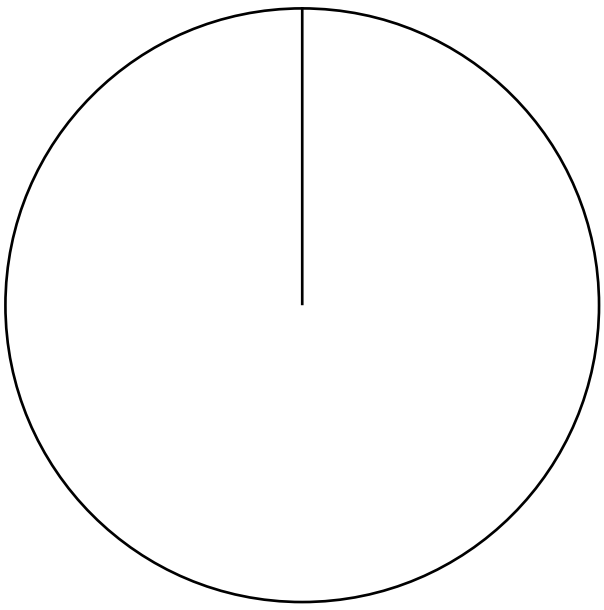

Speelgoed samen = ...

2D. Beantwoord de vragen.

Van welk speelgoed is er het meest?

.....

Van welk speelgoed is er het minst?

.....

Zijn er meer auto's of meer ballen?

.....

Zijn er minder ballen of minder emmers?

.....

