Groep 3

Lesweek 8

Je herhaalt
coördinatenpuzzel – staafgrafiek lezen – Romeinse cijfers (t/m 12) – plaatjesvierkanten maken en oplossen – lijnsymmetrie – turven – cirkeldiagram



1) Coördinatenpuzzel

1. Maak de puzzel.

Kleur: a5, a6, a7, b4, b5, b6, c3, c4, c5, d1, d2, d3, d4, d5, e1, e3, e4, e5, e6, e7, e8, e9, f3, f4, f5, f6, f7, f9, g3, g7, g8, g9, h3, h4, h8

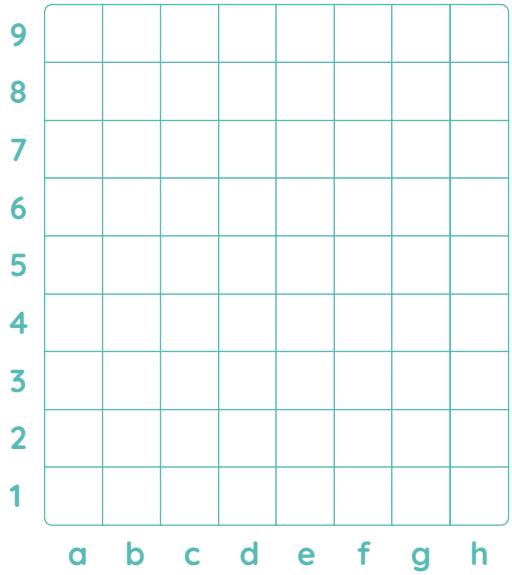

2) Staafgrafiek lezen

2. Hoeveel speelgoed?

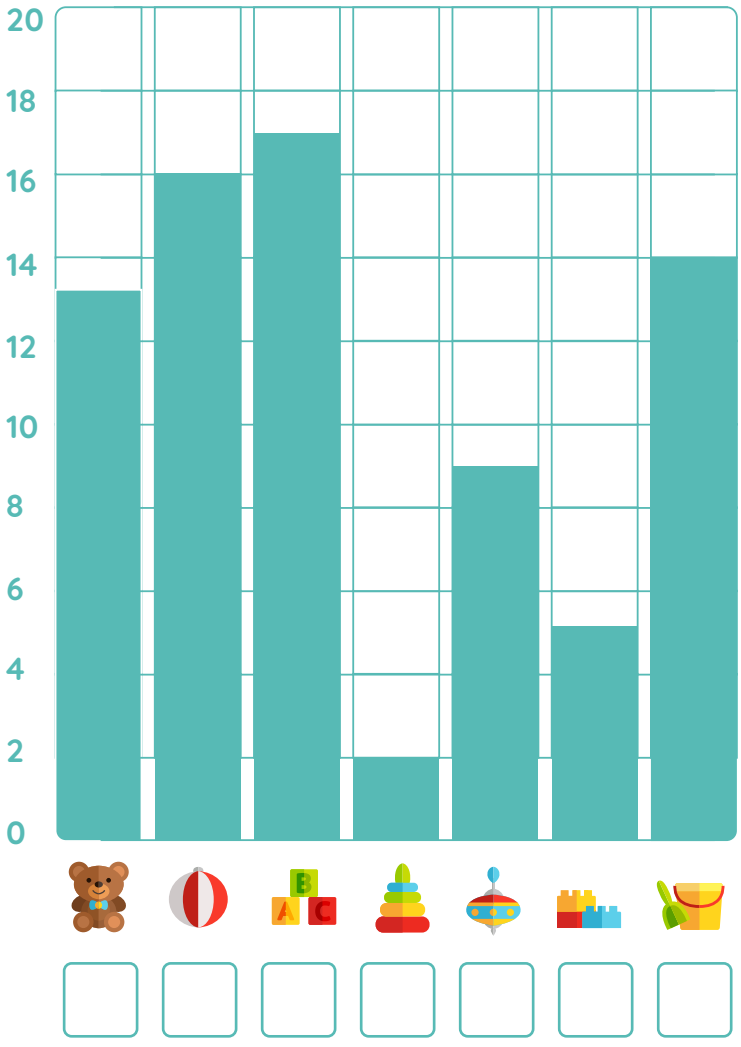

3) Romeinse cijfers (t/m 12)

3A. Maak de rij met Romeinse cijfers af.

I II III IV V ....

3B. Trek een lijn van de brieven naar het goede huis.



7 11 3 9 5

4) Plaatjesvierkanten maken en oplossen

4A. Los de plaatjesvierkanten op.

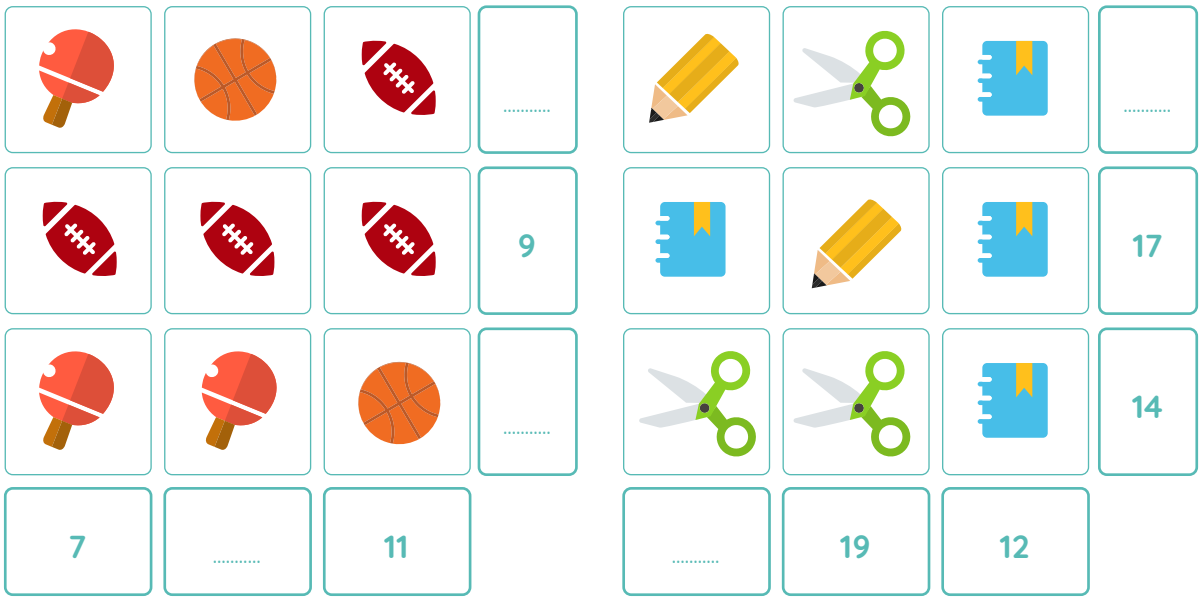

4B. Ontwerp zelf een plaatjesvierkant.



5) Lijnsymmetrie

5A. Teken de symmetrie-assen. Je mag een spiegel gebruiken.



5B. Teken de andere helft. Kleur in.

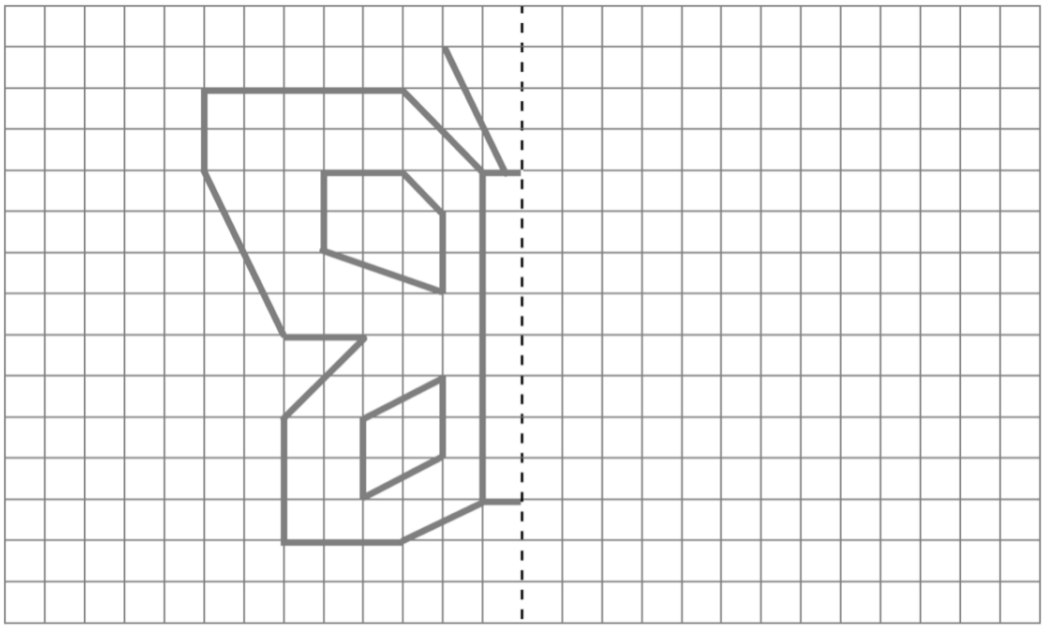

6) Turven

6. Maak de tabel af.

	8
𝍸 𝍸 𝍸 | | |	
	16
𝍸 𝍸 𝍸 𝍸 | |	
	.....

(bedenk zelf een getal)

7) Cirkeldiagram

7. Tel de fruitsoorten en schrijf in de tabel. Maak daarna het cirkeldiagram af.





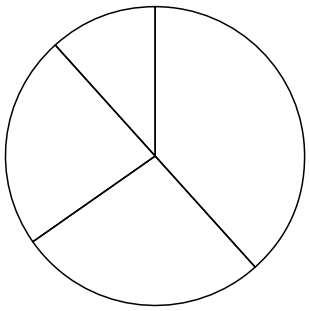

Fruit samen = ...