Groep 3

Lesweek 25

Je leert
priemgetallen t/m 10 – een weg maken van baanstukken

Je herhaalt
sudoku – coördinatenpuzzel



1) Priemgetallen t/m 10

Kijk de video

1A. Kleur de figuren met een priemgetal.



1B. Teken het aantal stippen naast het getal, net zoals in de video.
Als het kán, maak je gelijke rijen.

1		4		7	
2		5		8	
3		6		9	
				10	

2. Knip de baanstukken van het werkblad (blz. 77) uit. Maak de voorbeeldwegen na en bedenk zelf een weg. Plak je mooiste weg hieronder op.

Voorbeeldwegen:



3. Los de sudoku's op.

	5		2		3
		1		4	
1	2	6	3		4
3	4			2	6
	1		5		
5		2	4	3	1

	4	5		6	
3			2		4
		2	6		
6	3	1			5
	2	4	5	3	6
5	6			4	2

2	3		6		5
	4	5		1	3
		4		6	
	1	6	3		
1	5		4		
	6	3		5	2

5	2			3	6
	6		5		2
		6	3	5	4
3			2		1
1				4	5
	5	4	1		

4) Coördinatenpuzzel

4. Maak de puzzel. Gebruik een oranje, groen en blauw potlood.

Kleur oranje:
a4, d9, e8, e9, e10, f8, f9, f10, g9, j8

Kleur groen:
b5, c6, d5, d6, d7, e5, e6, e7, f5, f6, f7, g5, g6, g7, h6, i7,

Kleur blauw:
c1, d1, d2, d3, d4, e4, f1, f4, g1, g2, g3, g4

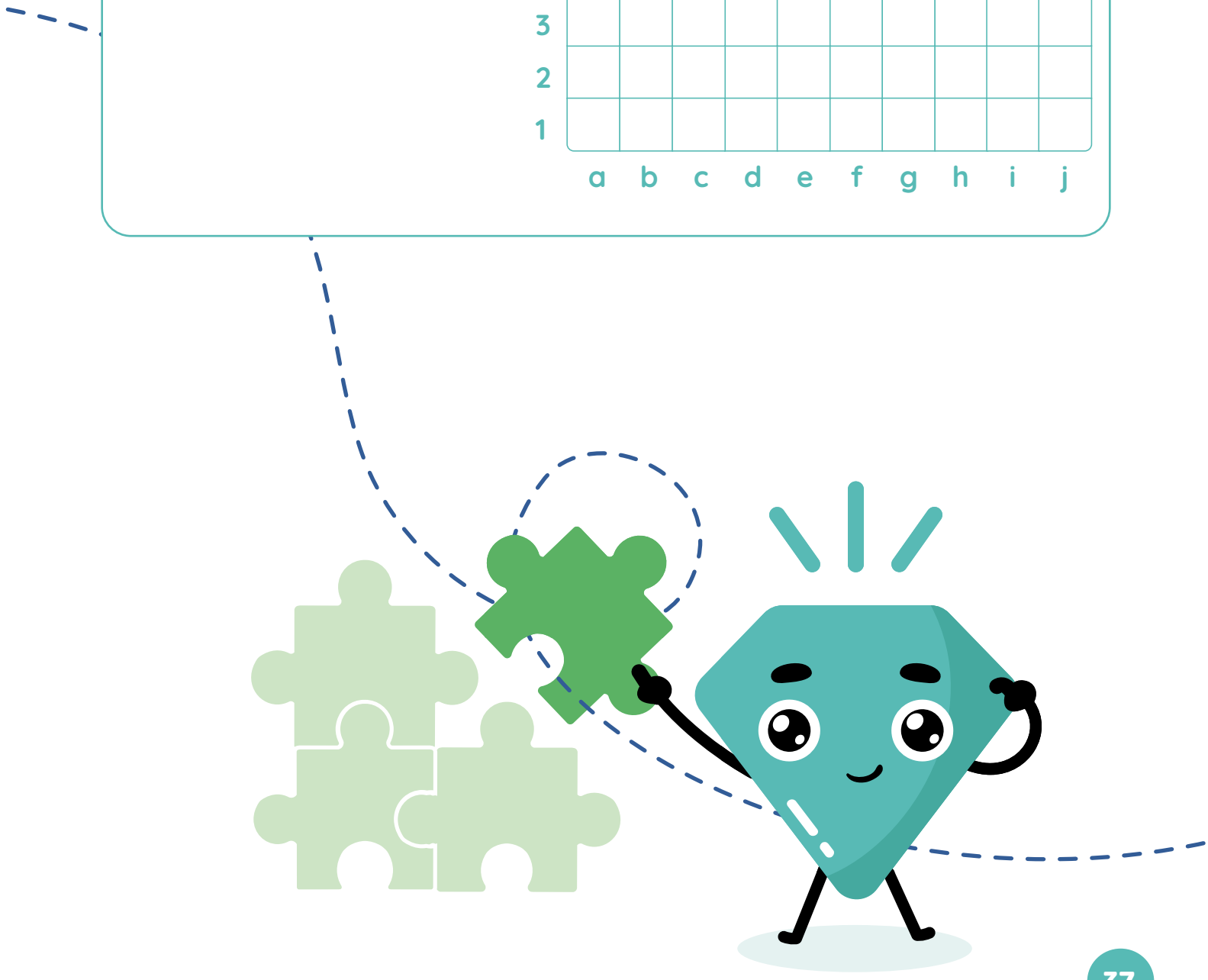

Werkblad lesweek 25: Baanstukken

