Groep 3
Lesweek 31

Je leert
doolhoven oplossen (doodlopende paden inkleuren)

Je herhaalt
cirkeldiagram – deelbaar door twee – magische driehoek

1) Doolhof oplossen (doodlopende paden inkleuren)

Kijk de video

1A. Los het doolhof op door alle doodlopende paden in te kleuren.

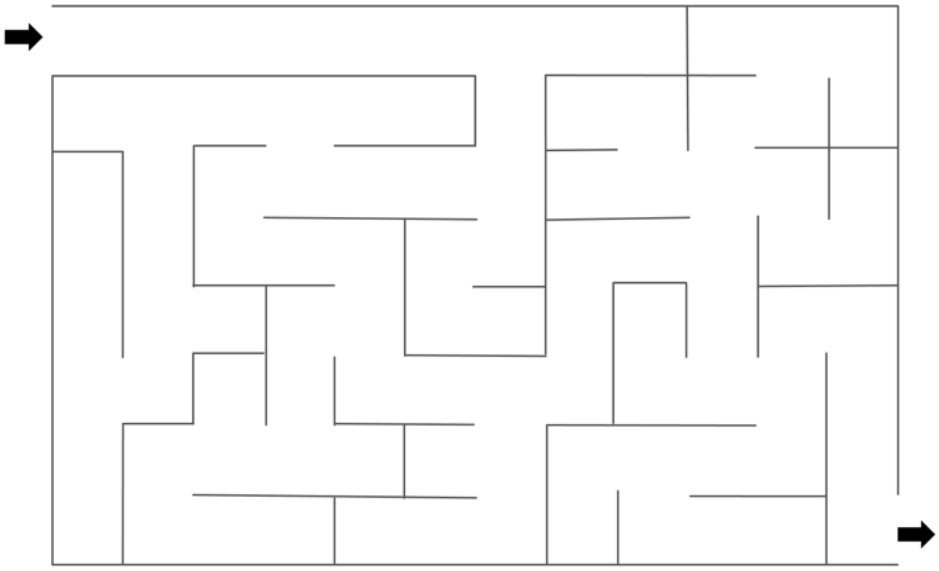

1B. Los het doolhof op door alle doodlopende paden in te kleuren.
Welk woord kom je tegen?

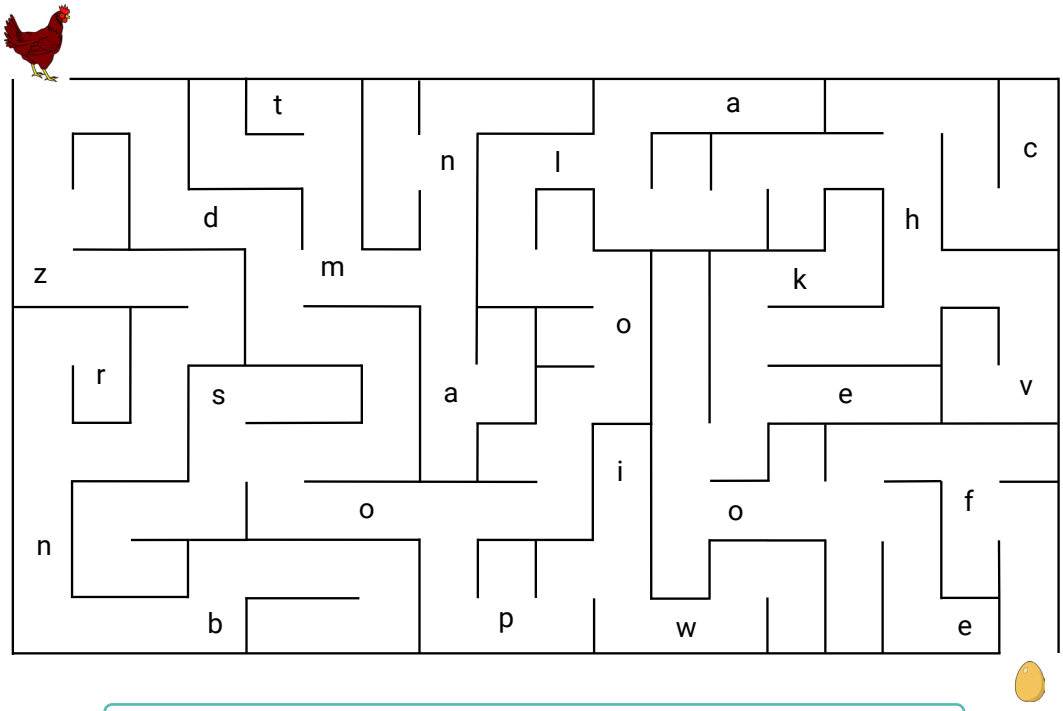

Woord: _____

1C. Vind de weg. Kies zelf hoe je dat doet.
Je mag de doodlopende paden inkleuren.

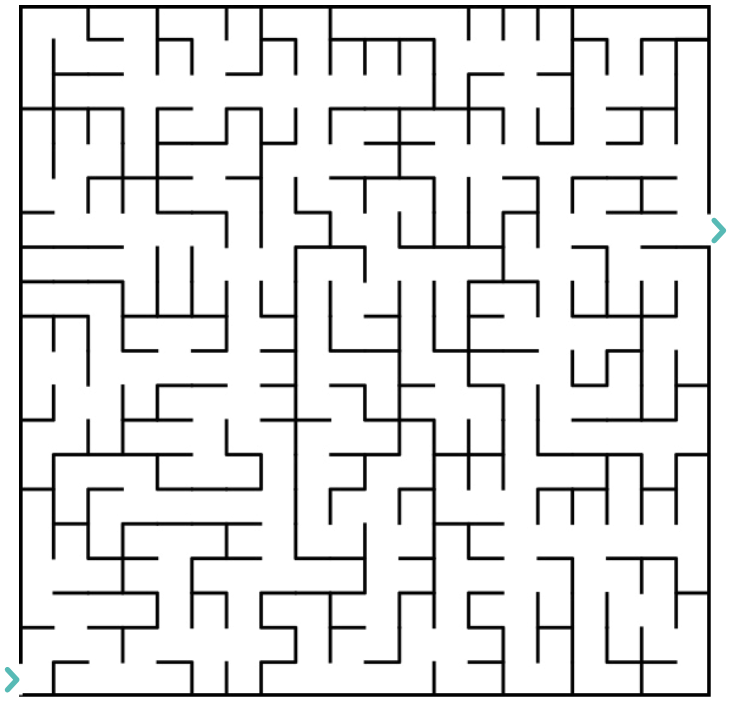



2A. Schrijf op hoeveel groente er van elk soort is.



= .....

= .....

= .....

= .....

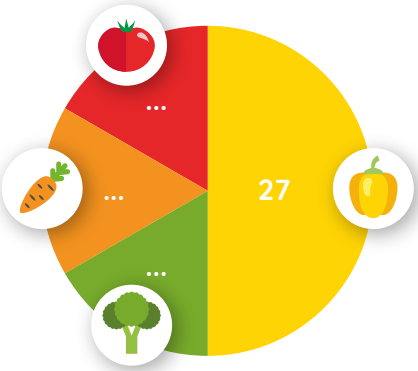

= .....

= .....

= .....

= .....

Groente samen = 100

Groente samen = ...

2B. Tel de groente en schrijf in de tabel. Maak daarna het cirkeldiagram af.





....

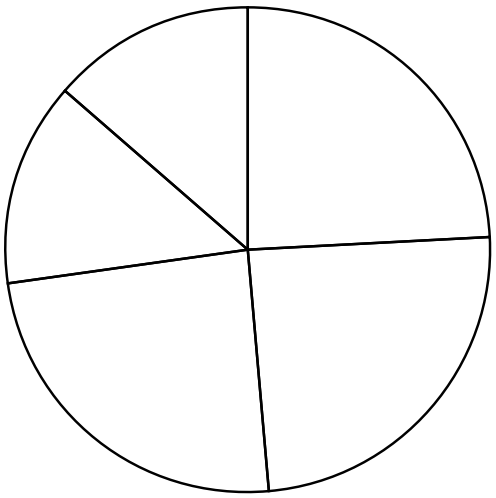

Groente samen = ...

3) Deelbaar door twee

3A. Even of oneven? Trek lijnen.

Even 2, 4, 6, ...	Oneven 1, 3, 5, ...

8233 211 919 784

810 122 674 50

(kies zelf een getal)

3B. Verdeel eerlijk.

10 = 5 + 5

8 = ... + ...

14 = ... + ...

12 = ... + ...

22 = ... + ...

Bedenk zelf zo'n eerlijke som met een even getal:

..... = ... + ...

4) Magische driehoek

4A. Los de magische driehoek op.

Gebruik de getallen 3, 4, 5, 6, 7 en 8.

Samen 17:

3	4	5	6	7	8
3	4	5	6	7	8
3	4	5	6	7	8



Samen 18:

3	4	5	6	7	8
3	4	5	6	7	8
3	4	5	6	7	8

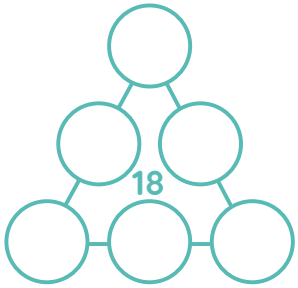

4B. Los de magische driehoek op.

Nu gebruik je de getallen 4, 5, 6, 7, 8 en 9.

Samen 20:

4	5	6	7	8	9
4	5	6	7	8	9
4	5	6	7	8	9

