Groep 3

# Lesweek 24

**Je herhaalt**
sudoku – tangram – meten met een liniaal – weg tekenen met één verdwijnpunt – balanssommen met aftrekken – reeksen met kleur, vorm en getallen – magische driehoek



## 1) Sudoku

**1. Los de sudoku's op.**

| | | | | | |
|---|---|---|---|---|---|
| | 5 | 2 | 4 | 6 | |
| 4 | 3 | | 1 | | |
| 6 | 2 | | 3 | 1 | 4 |
| 3 | 4 | | 6 | 5 | |
| 5 | 6 | | | | |
| 2 | | 3 | | 4 | 6 |

| | | | | | |
|---|---|---|---|---|---|
| 4 | | 6 | | 3 | |
| | 3 | | | | 5 |
| 2 | | 1 | 3 | 5 | 4 |
| | 4 | | 2 | | 6 |
| 6 | | 3 | 5 | 4 | |
| | 1 | 4 | | | |

## 2) Tangram

**2. Kleur de zeven stukjes van het werkblad (blz. 75) in: je mag zelf weten welke kleur(en).**
Knip de stukjes zo netjes mogelijk uit. Maak een vierkant. Plak het vierkant hieronder op.

## 3) Meten met een liniaal

**3. Meet met een liniaal. Hoeveel centimeter zijn de lijnen samen?**

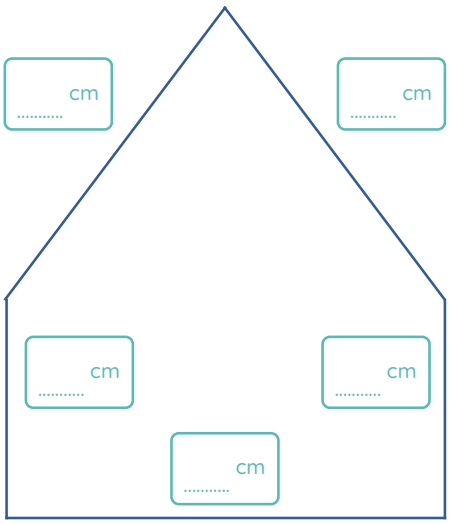


Samen:

[ ..... ] + [ ..... ] + [ ..... ] + [ ..... ] + [ ..... ] = [ ..... cm ]

## 4) Weg tekenen met één verdwijnpunt op de horizon

**4. Teken met een liniaal de horizon, het verdwijnpunt en een weg er naartoe.**
Je mag er ook een sloot bij maken. Of dingen die je bij horizon ziet. Maak de tekening zo mooi mogelijk!

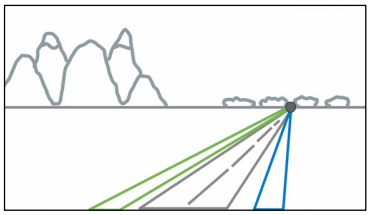

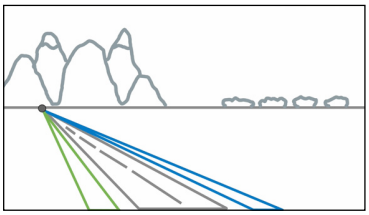



## 5) Balanssommen met aftrekken

**5A. Maak de balanssommen.**

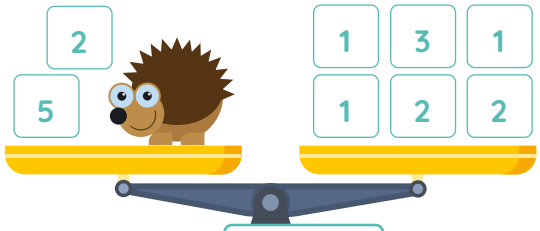


De egel weegt ..... kilo




Het schaap weegt ..... kilo

**5B. Ontwerp zelf balanssommen. Maak het zo moeilijk als je kunt!**

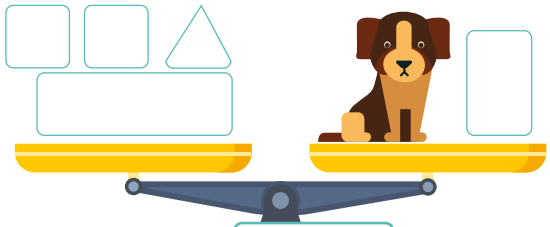

De hond weegt 15 kilo

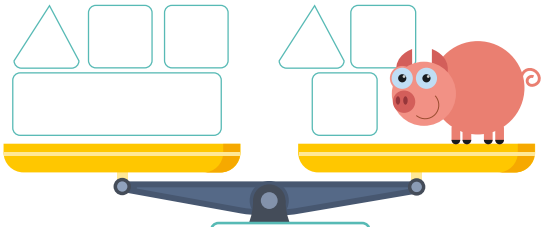

Het varken weegt 3 kilo



## 6) Reeksen met kleur, vorm en getallen

**6. Ontdek het patroon. En maak de reeks af.**




| | | | | | | |
|---|---|---|---|---|---|---|
| 8 | 15 | 22 | 29 | 36 | ..... | ..... |
| 72 | 67 | 62 | 57 | 52 | ..... | ..... |




| | | | | | | |
|---|---|---|---|---|---|---|
| ..... | ..... | 8 | 11 | ..... | 17 | ..... |
| 1 | 2 | 4 | 8 | 16 | ..... | ..... |

## 7) Magische driehoek

**7A. Los de magische driehoek op.**

Samen 12:

| | | | | | |
|---|---|---|---|---|---|
| 1 | 2 | 3 | 4 | 5 | 6 |
| 1 | 2 | 3 | 4 | 5 | 6 |
| 1 | 2 | 3 | 4 | 5 | 6 |

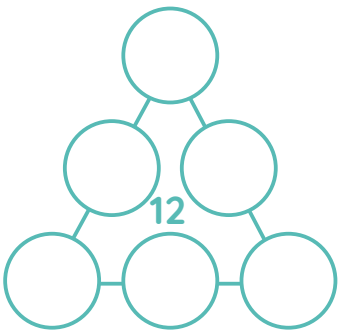


**7B. Los de magische driehoek op.**

Nu gebruik je de getallen 3, 4, 5, 6, 7 en 8.

Samen 16:

| | | | | | |
|---|---|---|---|---|---|
| 3 | 4 | 5 | 6 | 7 | 8 |
| 3 | 4 | 5 | 6 | 7 | 8 |
| 3 | 4 | 5 | 6 | 7 | 8 |

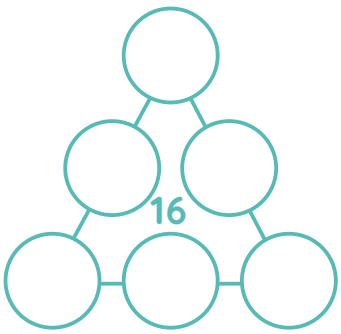

# Werkblad lesweek 24: Tangram

